11 MAART 2019

JAPANS VIERKANT - LABYRINTH
Plaats cijfers 1-7 in alle lege vakjes. In een rij of kolom komt elk cijfer maximaal één keer voor. Teken daarnaast één gesloten rondweg die horizontaal en verticaal verloopt door alle witte vakjes van het diagram. Aanwijzingen buiten het diagram geven de som aan van de getallen op elk afzonderlijk stuk van de rondweg in de betreffende rij, in de juiste volgorde.

JAPANESE SUMS - LABYRINTH
Place digits 1-7 into all empty cells such that no digit is repeated within a row or column. Additionally, draw a single closed loop that travels horizontally and vertically through all white cells of the grid. Clues outside the grid indicate the sums of the digits on each loop segment in the respective row, in the correct order.

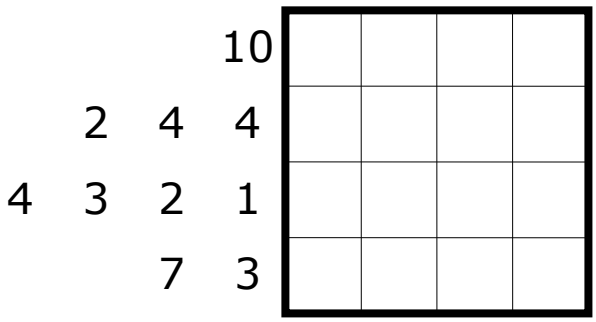

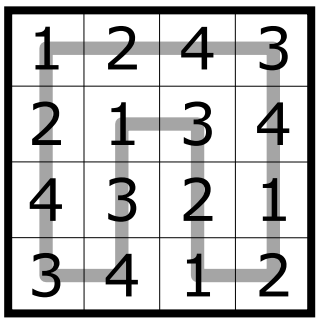

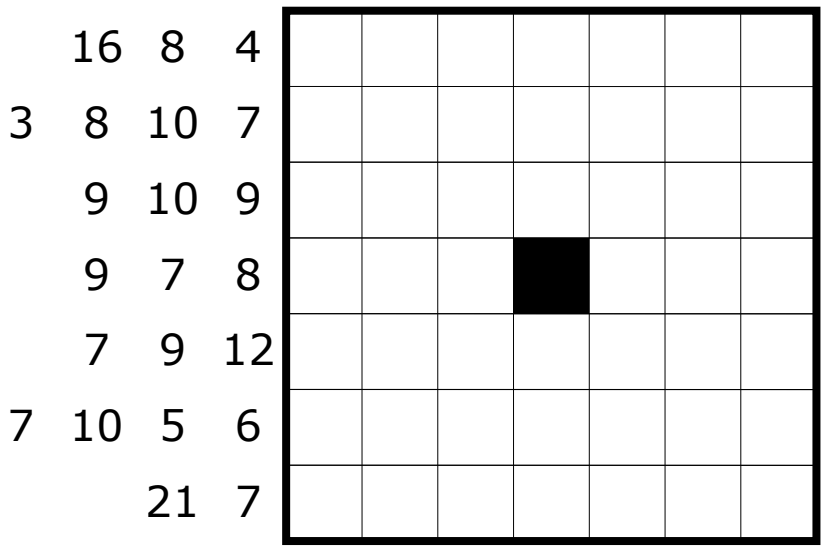

By Tom Groot Kormelink

Puzzle ID: #2150

© WCPN 2019. All rights reserved.